++++++++++++++++++++++++++++++++++++++++++++++++++++++++++++++++++++++++++++++++++++++++++++

Für die täglichen Übungen sind nur Zeichengeräte zugelassen,
Taschenrechner und Tafelwerk sollen nicht benutzt werden!

www.mathe–lernen.net

++++++++++++++++++++++++++++++++++++++++++++++++++++++++++++++++++++++++++++++++++++++++++++

10 – 2 (9 – 13)

4km + 1280m + 0,7km = _____km

321000000 = 3,21 x $10^{\square}$

25% sind 16g von _____

Skizziere in ein gemeinsames Koordinatensystem $y1=-x^2$ ; $y2 = x^{-2}$ ; $y3 = x^3$

Stellen Sie die Formel $c^2=a^2+b^2-2ab*\cos\gamma$ nach $\cos\gamma$ um.

Ein Zug soll 8:47 Uhr starten und 1:17 Stunden unterwegs sein. Gib die Ankunftszeit an!

Gina trifft von 40 Bällen 18. Tina schafft von 50 Bällen 22. Wer trifft prozentual mehr?

Beschrifte ein x-Achse 1:1 mit $\frac{\pi}{2}$, $\pi$ und $2\pi$.

Skizziere das Zweitafelbild für diesen zusammengesetzten Körper!

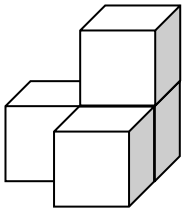

++++++++++++++++++++++++++++++++++++++++++++++++++++++++++++++++++++++++++++++++++++++++++++

18

5,98km

3,21 x $10^8$

64g

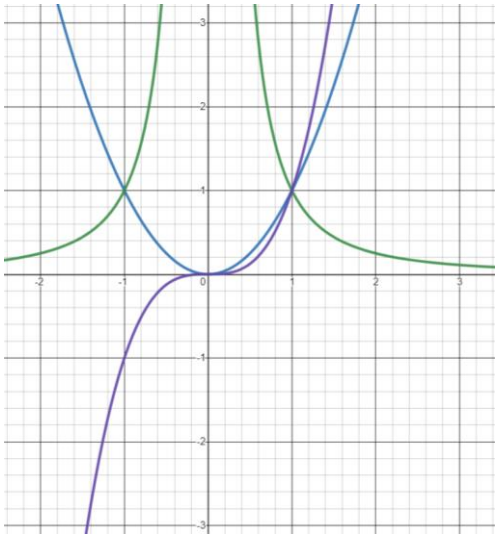

$$\cos\gamma = \frac{a^2+b^2-c^2}{2ab}$$

Er kommt 10:04 Uhr an.

Gina Tina

$\frac{18}{40} = \frac{9}{20} = \frac{45}{100}$ und $\frac{22}{50} = \frac{44}{100}$

Gina gewinnt

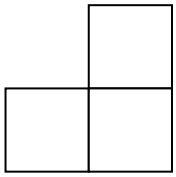

$\frac{\pi}{2}$ ist 3,14 :2 = 1,55 , $\pi$=3,14 und $2\pi$=2*3,14 = 6,28≈6,3

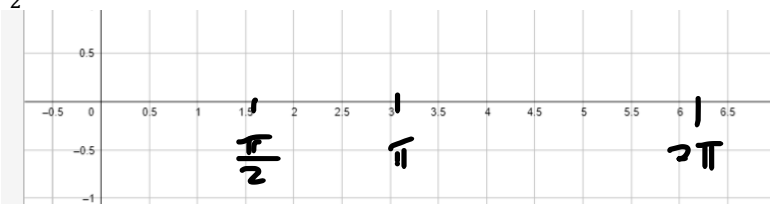


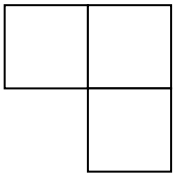

++++++++++++++++++++++++++++++++++++++++++++++++++++++++++++++++++++++++++++++++++++++++++++