Beschreibe die folgenden Figuren durch eine möglichst kurze Umfangsformel

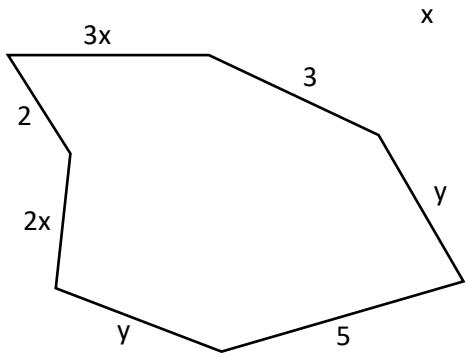

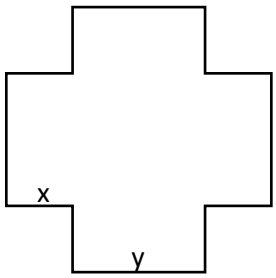

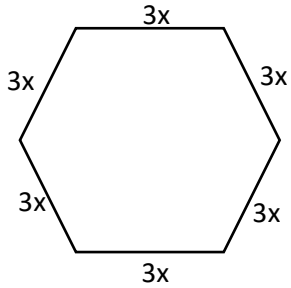

Fasse die folgenden Terme soweit wie möglich zusammen!

3a + 4a + 7a – a **7a + 6b – a + 3b** **4x – 19 + 6x + 10**

10 – 3a + 9 – 11a **8y – y – 5 + 3y – 1** **2f + f – s – 5 – 3s**

Löse die Gleichungen!

7x = 5x – 19 **6x – 14 = – 5x + 19** **2x – 8 = 5x + 16**

4x – 104 = 62x – 172 **3x = 8x – 165** **4x – 4 = 16x + 62**